CORRIGES

Programme de travail du jeudi 30 avril – CE2

ORTHOGRAPHE – DICTEE

Céline dessine un serpent assez haut sur une balançoire et des poissons dans une
S V
piscine remplie de cerises. Oui, c'est possible !

Des fleurs poussent dans du sable à la couleur dorée.
S = elles V
Ma jeune sœur a les yeux bleus et les cheveux noirs.

GRAMMAIRE

Tu vas travailler sur les natures des mots : déterminant, nom commun, nom propre, verbe, pronom… et sur la recherche du verbe et du sujet.

Marion et son frère Louis ne fabriquent pas un bateau de pirates gigantesque.
S V

Rappel :

- Pour trouver le sujet on pose la question « Qui est-ce qui ? »

Qui est-ce qui fabriquent un bateau de pirates ? C'est Marion et son frère Louis

- Pour trouver le verbe, on transforme la phrase à la forme négative avec « ne … pas »

Les NATURES des mots

Le groupe nominal			
un, la, mes… son un	petit, beau, intelligent… gigantesque	girafe, voiture, fille, cinéma…. Frère Bateau pirates	Enzo, Paris, Angleterre… Marion Louis
Le groupe verbal			
			
je, tu, il, elle, on, nous, vous, ils, elles …	chante, mangeons, tirent… fabriquent	chanter, manger, tirer…	
Les mots outils (mots invariables)			
		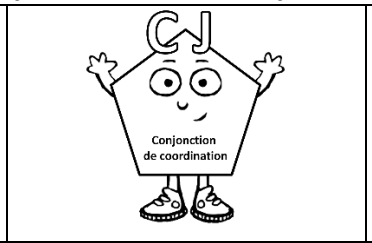	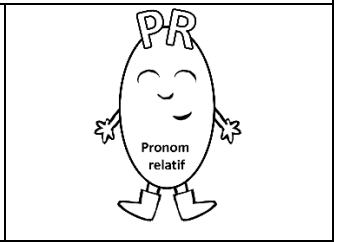
jamais, ici, rapidement…	à, de, en, par, pour, sur, avec, dans… de	mais, ou, et, donc, or, ni, car… et	Qui, que, quoi, dont, où…

Demain, Marion et son frère Louis fabriqueront un bateau de pirates gigantesque.

<u>A partir de la phrase ci-dessus, réalise les consignes suivantes.</u>

1. A quel temps cette phrase est-elle écrite ? **au futur**

2. Transforme la phrase au présent.

En ce moment, Marion et son frère Louis fabriquent un bateau de pirates gigantesque.

3. Transforme la phrase à l'imparfait.

Quand ils étaient petits, Marion et son frère Louis fabriquaient un bateau de pirates gigantesque.

4. Réécris la phrase en la réduisant le plus possible c'est-à-dire en ne gardant que les mots essentiels. Attention, tu peux supprimer certains mots mais tu ne peux pas les changer.

Marion et Louis fabriqueront un bateau.

CALCUL MENTAL

Voici une équation à résoudre comme on en a déjà fait en classe. A toi de jouer !

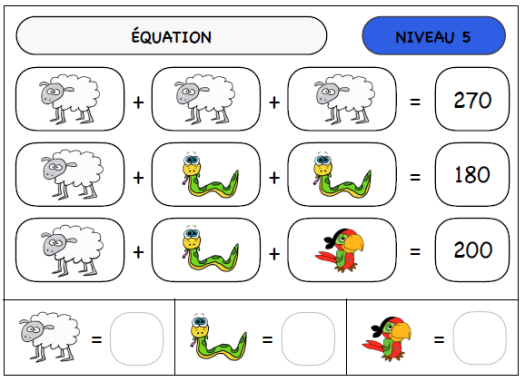

90 + 90 + 90 = 270

90 + 45 + 45 = 180

90 + 45 + 65 = 200

= 90 **= 45** **= 65**

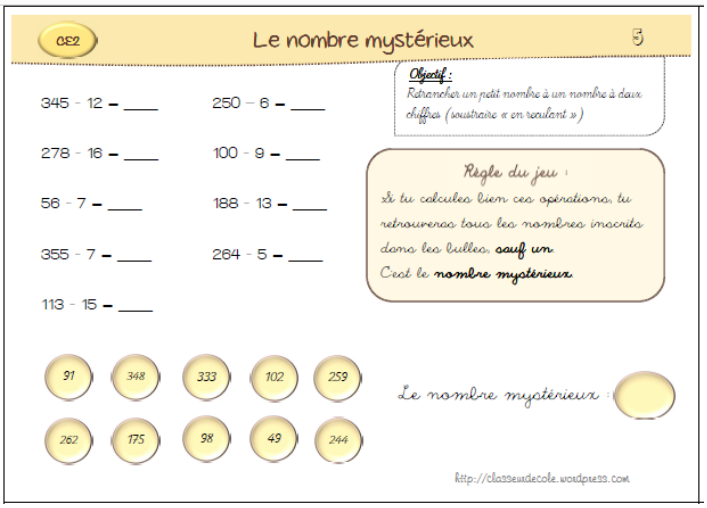

345 - 12 = 333
278 – 16 = 262
56 – 7 = 49
355 – 7 = 348
113 – 15 = 98

250- 6 = 244
100 – 9 = 91
188 – 13 = 175
264 – 5 = 259

Le nombre mystérieux est le <u>102</u>.

CALCUL /NUMERATION – Le nombre du jour

Et revoilà le nombre du jour ! C'est parti, à toi de compléter avec le nombre 10945.

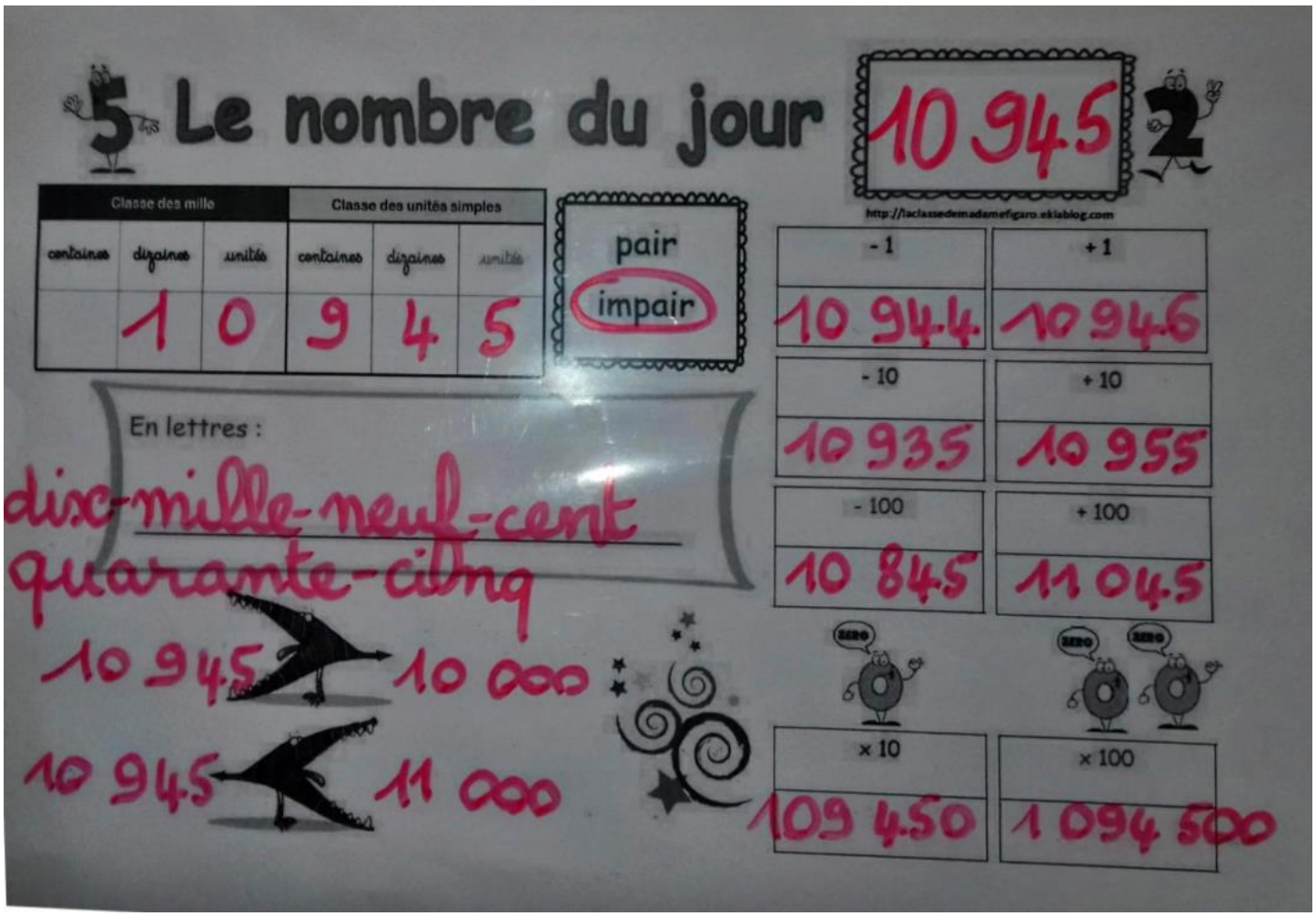

PROBLEME

Résous ce problème. Tu peux faire un schéma, écrire un calcul ou expliquer ta solution.
Pour le club de tennis, un entraineur achète 18 boites de 3 balles de tennis à 5€ la boîte.
Combien l'entraineur va-t-il payer ?

Calcul ou schéma :
18 x 5 = (10 X 5) + (8 X 5) = 50 + 40 = 90

Phrase réponse : L'entraineur va payer 90€.