CORRIGES

Programme de travail du vendredi 3 avril – CE2

GRAMMAIRE – les natures des mots

Dans une semaine, ils partiront en Italie avec leurs meilleurs amis Anne et Alexandre.

Les NATURES des mots

Le groupe nominal			
			
un, la, mes… **une** **leurs**	petit, beau, intelligent… **meilleurs**	girafe, voiture, fille, cinéma…. **semaine** **amis**	Enzo, Paris, Angleterre… **Italie** **Anne** **Alexandre**
Le groupe verbal			
			
je, tu, il, elle, on, nous, vous, ils, elles … **ils**	chante, mangeons, tirent… **partiront**	chanter, manger, tirer…	
Les mots outils (mots invariables)			
	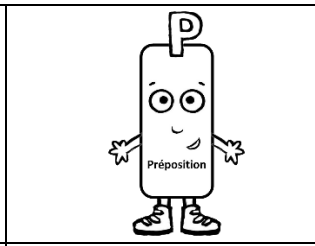	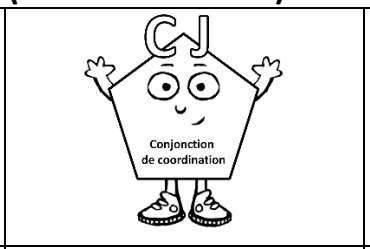	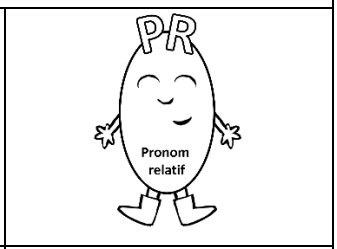
jamais, ici, rapidement…	à, de, en, par, pour, sur, avec, dans… **dans, en, avec**	mais, ou, et, donc, or, ni, car… **et**	Qui, que, quoi, dont, où…

VOCABULAIRE – les homonymes

Exercice 3 : **Recopie et complète la phrase avec l'homonyme qui convient. Aide-toi du sens de la phrase.**

- Mon frère a reçu un (coup – cou) de poing et il a très mal au (coup – cou).
- Quel est le (pois – poids) d'un petit (pois – poids) ?
- Votre (paire – père) a une nouvelle (paire – père) de chaussures.

Exercice 5 : **Recopie et complète chaque phrase avec l'homonyme qui convient : maître, mètre ou mettre.**

- Il faut mettre ..... son manteau avant de sortir.
- L'ouvrier mesure le mur avec un mètre.
- Le maître ..... d'école fait l'appel tous les matins.

MESURES – la monnaie

Pour chaque objet, calcule l'argent qui sera rendu par rapport au billet donné et au prix de l'objet.

Exemple 1 : l'objet coûte 13,90€. On paie avec un billet de 20€.
13,90€ + 10c = 14€
14€ + 6€ = 20€
Il sera rendu 6 €10c.

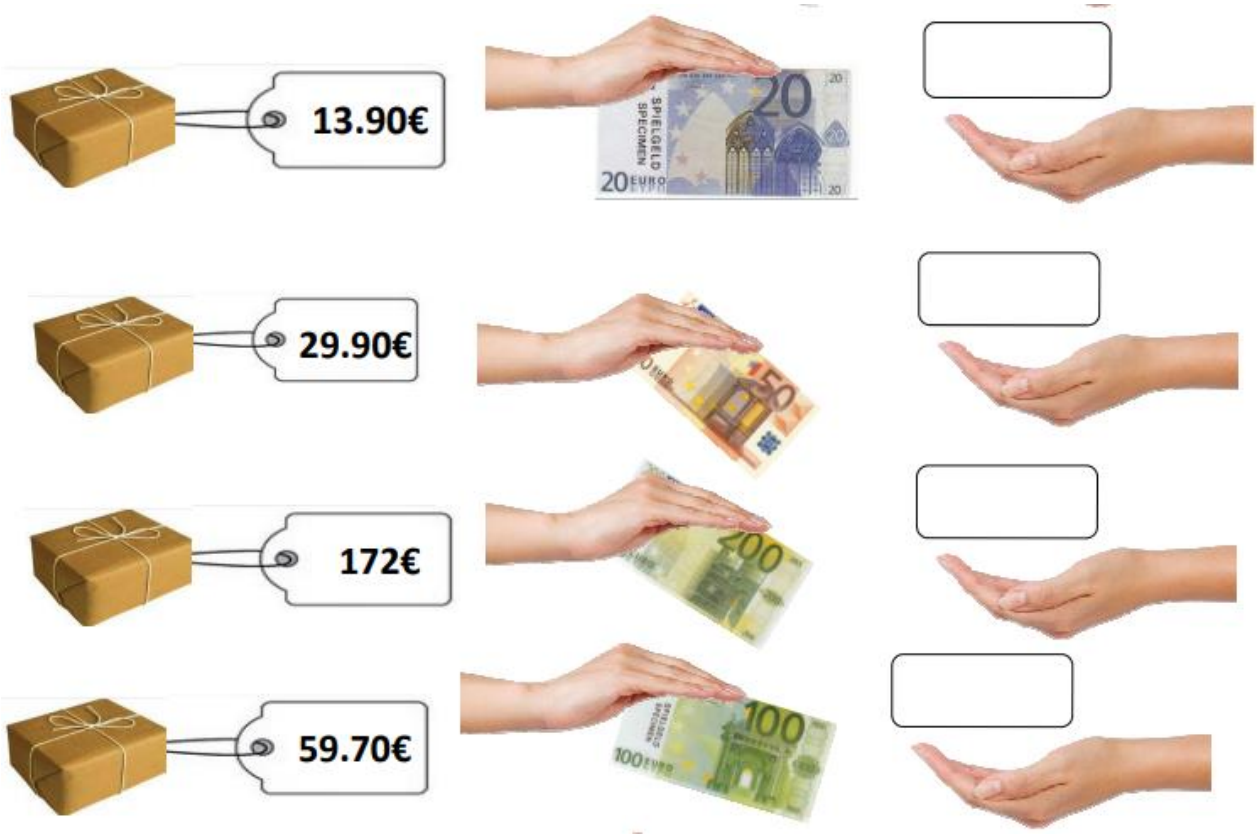

29,90€ + ? = 50€
29,90€ + 10c = 30€
30€ + 20€ = 50€
29,90€ + 20€10c = 50€
Il sera rendu 20€10c.

172€ + ? = 200€
172 + 8 = 180
180 + 20 = 200
172 + 28 = 200
Il sera rendu 28 €.

59,70€ + ? = 100€
59,70€ + 30c = 60€
60€ + 40€ = 100€
Il sera rendu 40€30c.

GEOMETRIE - tracé de rectangle

- **Réalise ces tracés très soigneusement. Utilise ton équerre pour former les angles droits.**
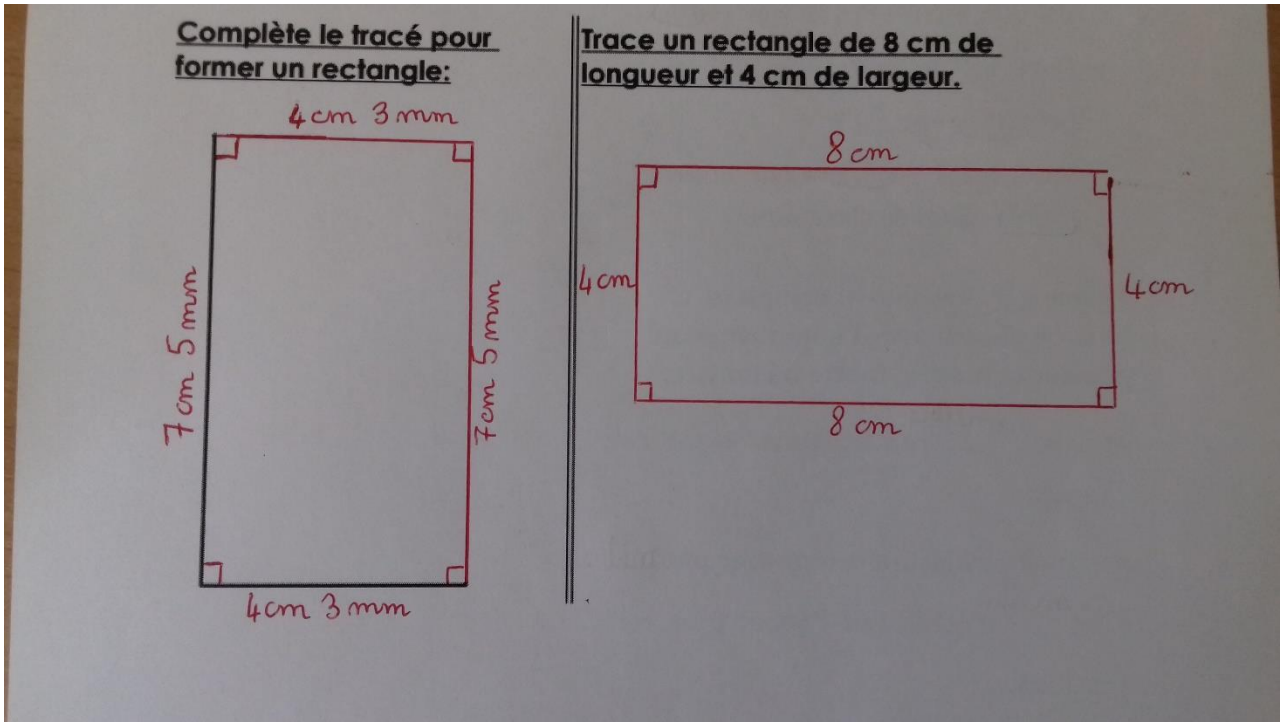
Désolé, ma photo n'est pas de bonne qualité !
Il faut que les 2 rectangles aient quatre angles parfaitement droits !