Travail du jeudi 9 avril – CE1

Orthographe : faire la dictée du jeudi et commencer à revoir celle du vendredi

Ecriture : sur ton cahier, fais les lignes d'écriture suivantes.

Recopie cette phrase en écriture cursive :

Ludivine et Lucie vont à Lyon.

EDL :

Fais les exercices suivants en ligne :

https://www.clicmaclasse.fr/activites/etude-langue/accord-sujet-verbe/accord-sujet-verbe_ex04.html

https://www.clicmaclasse.fr/activites/etude-langue/accord-sujet-verbe/accord-sujet-verbe_ex05.html

Pour cet exercice, vous devez écouter la phrase en cliquant sur le haut - parleur à côté de chaque phrase et ensuite écrire le verbe dans la case.

Lis bien ce mémo avant de faire les exercices suivants :

Conjuguer des verbes au présent : régularité avec *nous* et *vous*

Au présent, presque tous les verbes conjugués avec *nous* se terminent par « ons ».
Presque tous les verbes conjugués avec *vous* se terminent par « ez ».

Exemples : nous	regardons	vous	regardez
nous	jouons	vous	jouez
nous	voulons	vous	voulez
nous	venons	vous	venez
nous	pouvons	vous	pouvez

❶ Relie d'un trait chaque groupe pour former des phrases.

Toi et moi •	• nous •	• sautez
Ton frère et toi •		• rions
	• vous •	• écoutons
Ma sœur et moi •		• téléphonez

❷ Complète avec le pronom personnel de conjugaison « nous » ou « vous ». (Lis la phrase entière avant d'écrire.)

Toi et moi, ... jouons aux cartes.

Elle et toi, ... parlez trop fort.

Roméro et moi, ... aimons le rugby.

Toi et ton frère, ... arrivez souvent en retard.

❸ Complète les phrases en conjuguant au présent le verbe écrit entre parenthèses.

Nous ..... (quitter) la maison très tôt le matin.

Vous ..... (dessiner) un joli paysage.

Nous ..... (ramasser) les feuilles mortes.

Nous ..... (vouloir) visiter le château de Versailles.

Vous ..... (venir) toujours à l'école à pied.

Vous ..... (pouvoir) venir me voir dimanche prochain.

❹ Récris les phrases en remplaçant « on » par « nous ».

Avec mes cousins, on décide d'aller à la piscine.

Avec mes cousins, nous...

On met toutes les affaires dans un grand sac.

En arrivant, on enfile un maillot de bain.

On prend une douche rapidement.

On saute à pieds joints dans l'eau.

On éclabousse partout, c'est très amusant !

❺ Entoure le pronom personnel sujet puis recopie les phrases en le remplaçant par « vous ».

Ils rentrent silencieusement en classe.

Elle écrit la date au tableau.

Nous écoutons attentivement la maitresse.

Elles récitent un poème.

Il copie une règle de grammaire.

<u>Mathématiques : géométrie</u>

Ecris la description du rectangle et du triangle. Je te montre en écrivant la description du carré.

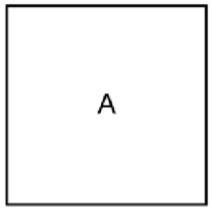

Le carré a 4 cotés qui ont tous la même longueur et il a 4 angles droits.

A ton tour !

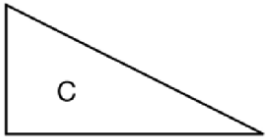

<u>Dans ton fichier de maths : fais les exercices de la page 134 et 135.</u>

Pour l'exercice 2, utilise ton équerre pour trouver les angles droits.

Numération :

Numération

Fiche 29

1 Ecris les nombres en comptant de 10 en 10.

604												
231												
758												

2 Ecris le nombre avant et le nombre après.

	700	
	900	
	300	

3 Ecris ces nombres en lettres .

411 _____

831 _____

4 Place chaque nombre sur la droite graduée comme le modèle

256 190 420 790 360 590

100 200 300 400 500 600 700 800

Numération

Fiche 30

1 Ecris les nombres en comptant de 100 en 100.

145									
48									
403									

2 Ecris le nombre avant et le nombre après.

	600	
	400	
	200	

3 Ecris ces nombres en lettres .

704 _____

960 _____

4 Place chaque nombre sur la droite graduée.

95 310 290 450 820 690

100 200 300 400 500 600 700 800

Calcul :

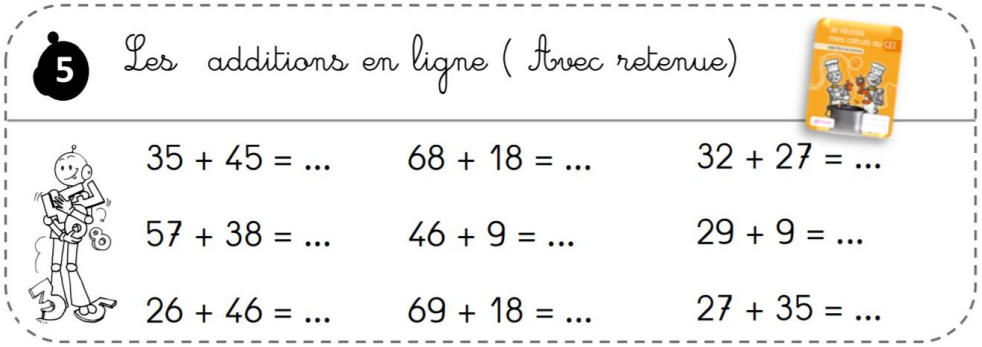

5 Les additions en ligne (Avec retenue)

35 + 45 = ... 68 + 18 = ... 32 + 27 = ...

57 + 38 = ... 46 + 9 = ... 29 + 9 = ...

26 + 46 = ... 69 + 18 = ... 27 + 35 = ...

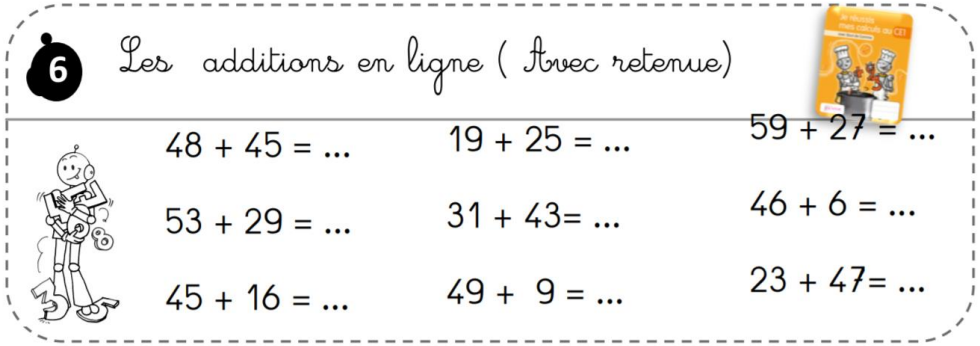

6 Les additions en ligne (Avec retenue)

48 + 45 = ... 19 + 25 = ... 59 + 27 = ...

53 + 29 = ... 31 + 43= ... 46 + 6 = ...

45 + 16 = ... 49 + 9 = ... 23 + 47= ...

Attention : dans ces calculs en ligne, il ne faut pas oublier la retenue :

Ex : 35 + 45 = 80

On commence par les unités : 5+5 =10

Puis on continue avec les dizaines : 1 + 3 + 4 = 8

C'est la retenue

Calculs posés : Sur ton cahier, pose et calcule.

468 + 326 + 100 =

378 + 54 + 491 =

689 – 482 =

371 – 126 =

Problème :
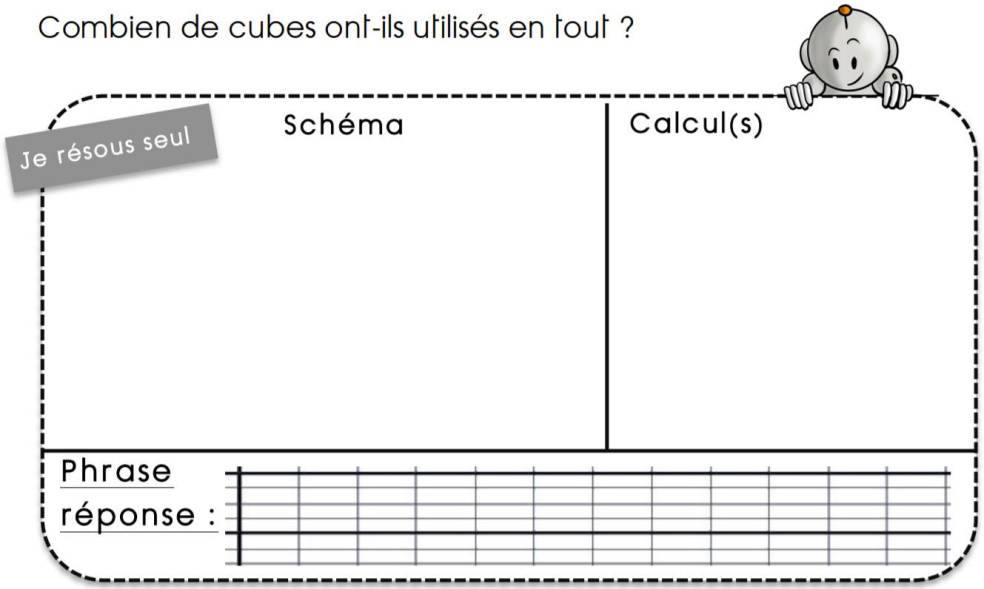
Enoncé : Tirobot et Robotine jouent ensemble. Ils fabriquent 5 tours de 10 cubes.
Combien de cubes ont-ils utilisés en tout ?